КОД

**Проверочная работа**

**по ГЕОГРАФИИ**

**8 класс**

**Вариант 1**

## Инструкция по выполнению заданий части 1 проверочной работы

На выполнение заданий части 1 проверочной работы по географии отводится один урок (не более 45 минут). Часть 1 включает в себя 9 заданий.

Ответы на задания запишите в поля ответов в тексте работы или в специально отведённом для ответа месте, указанном в задании. В случае записи неверного ответа зачеркните его и запишите рядом новый.

При выполнении заданий части 1 проверочной работы не разрешается пользоваться учебниками, рабочими тетрадями, справочным материалом. При выполнении всех заданий работы можно использовать карты атласа 8 класса.

При необходимости можно пользоваться черновиком. Записи в черновике проверяться и оцениваться не будут.

Советуем выполнять задания в том порядке, в котором они даны. В целях экономии времени пропускайте задание, которое не удаётся выполнить сразу, и переходите к следующему. Если после выполнения работы у Вас останется время, то Вы сможете вернуться к пропущенным заданиям.

***Желаем успеха!***

*Таблица для внесения баллов участника**

| Номер задания | 1 | 2 | 3 | 4 | 5 | 6 | 7 | 8 | 9 | Сумма баллов (за Часть 1) |
|---|---|---|---|---|---|---|---|---|---|---|
| Баллы | | | | | | | | | | |

* *Обратите внимание*: в случае, если какие-либо задания не могли быть выполнены целым классом по причинам, связанным с особенностями организации учебного процесса, в форме сбора результатов ВПР всем обучающимся класса за данные задания вместо баллов выставляется значение «Тема не пройдена». В соответствующие ячейки таблицы заполняется н/п.

КОД

**1** Россия расположена в северной части материка Евразия, занимает более 30 % его территории и омывается водами морей трёх океанов. Установите соответствие между морями, омывающими территорию России, и их обозначениями на фрагменте карты Евразии: к каждому элементу первого столбца подберите соответствующий элемент из второго столбца.

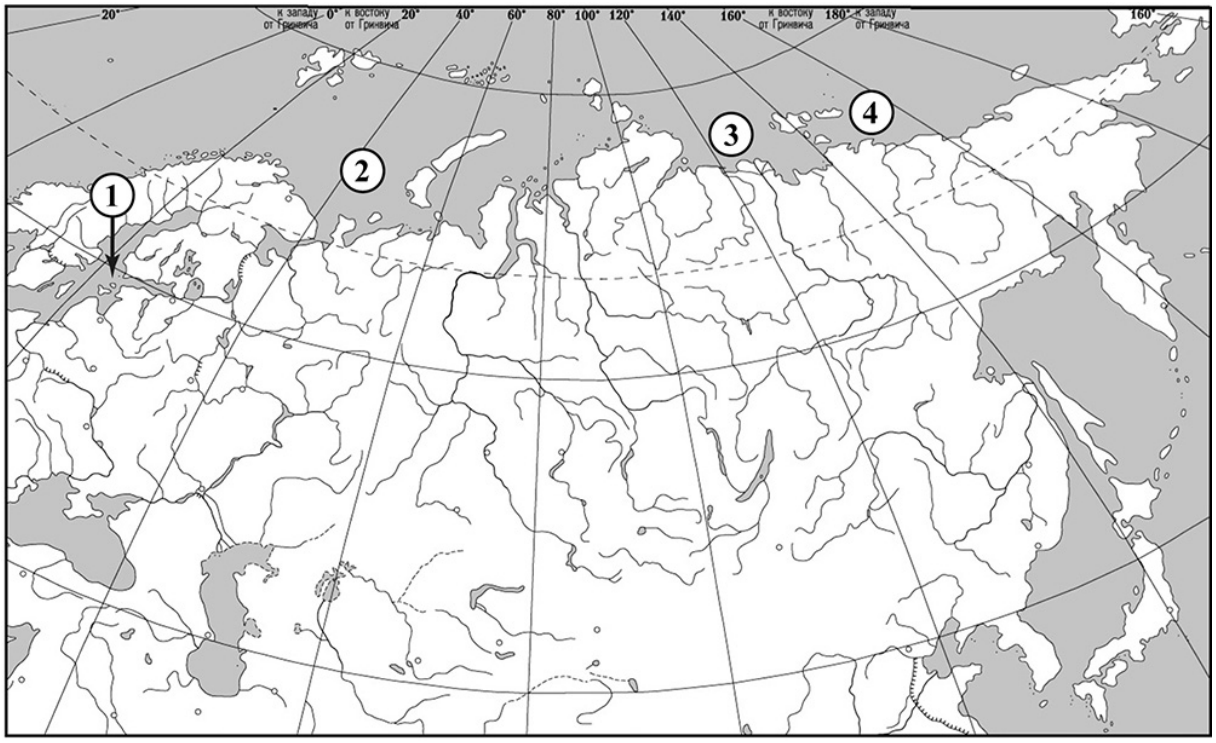


| МОРЯ | ОБОЗНАЧЕНИЯ НА КАРТЕ |
|---|---|
| А) Балтийское | 1) 1 |
| Б) Баренцево | 2) 2 |
| В) Лаптевых | 3) 3 |
| | 4) 4 |

Запишите в таблицу выбранные цифры под соответствующими буквами.

Ответ:

| А | Б | В |
|---|---|---|
| | | |

КОД

**2** Выберите из списка название страны, которое нужно вставить на место пропуска.

Со многими странами Россия имеет как сухопутную, так и морскую границу. Участок Государственной границы России с _____ проходит в акватории Японского моря.

1) США
2) Казахстан
3) КНДР
4) Польша

Запишите номер выбранной страны.

Ответ:

**3** Территориальные воды России являются частью её государственной территории. В пределах своего континентального шельфа Россия имеет суверенные права на разведку и разработку природных ресурсов. Установите соответствие между границей континентального шельфа России, границей территориальных вод России и цифрами, которыми эти границы обозначены на рисунке: к каждому элементу первого столбца подберите соответствующий элемент из второго столбца.

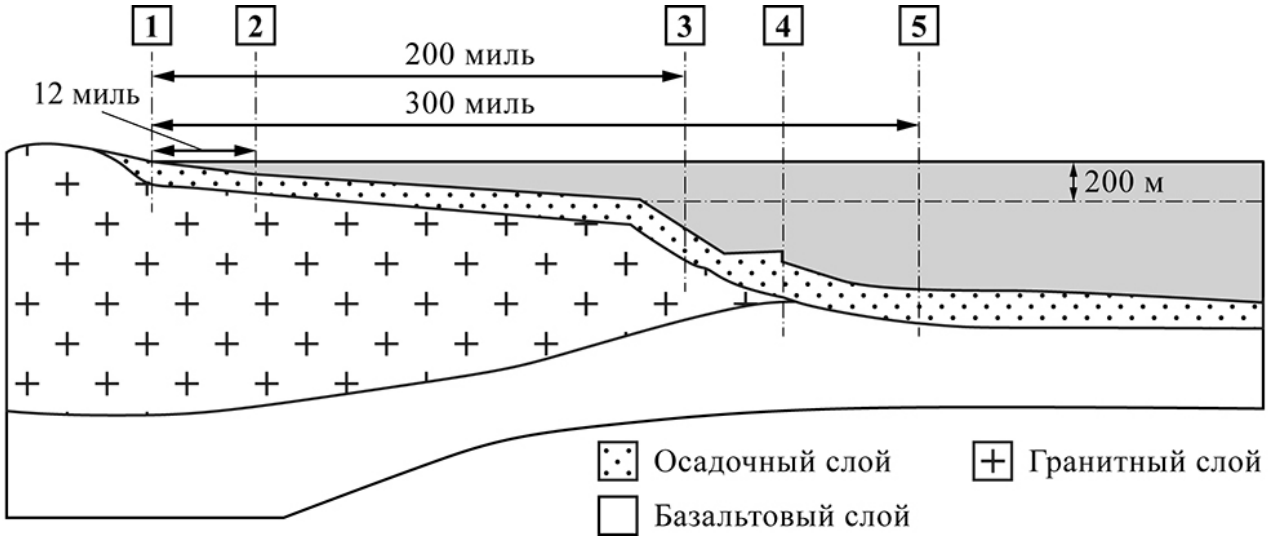


| ГРАНИЦЫ | ОБОЗНАЧЕНИЯ НА РИСУНКЕ |
|---|---|
| А) внешняя граница континентального шельфа России | 1) 1 |
| Б) внешняя граница территориальных вод | 2) 2 |
| | 3) 3 |
| | 4) 4 |
| | 5) 5 |

Запишите в таблицу выбранные цифры под соответствующими буквами.

Ответ:

| А | Б |
|---|---|
| | |

КОД

**4** Алиса и Руслан живут в Республике Татарстан. Они решили отправиться в гости к родственникам в Хабаровский край. Они купили билеты на самолёт из своей республиканской столицы до Хабаровска – краевого центра. Заполните пропуски в авиабилете: впишите название пункта вылета и время прилёта в пункт назначения (местное время).

**5** Установите соответствие между примерами хозяйственной деятельности и типами природопользования, к которым они относятся: к каждому элементу первого столбца подберите соответствующий элемент из второго столбца.

| ПРИМЕРЫ ХОЗЯЙСТВЕННОЙ ДЕЯТЕЛЬНОСТИ | ТИПЫ ПРИРОДОПОЛЬЗОВАНИЯ |
|---|---|
| А) создание водохранилищ на равнинных реках | 1) рациональное |
| Б) создание лесозащитных поясов вокруг крупных городов | 2) нерациональное |
| В) избыточное орошение почв в засушливых районах | |

Запишите в таблицу выбранные цифры под соответствующими буквами.

Ответ:

| А | Б | В |
|---|---|---|
| | | |

КОД

**6** Ученики изучали геологическое строение территории родного края. Установите соответствие между слоями горных пород, обозначенными на рисунке буквами, и геологическими эрами, к которым относится их образование: к каждому элементу первого столбца подберите соответствующий элемент из второго столбца.

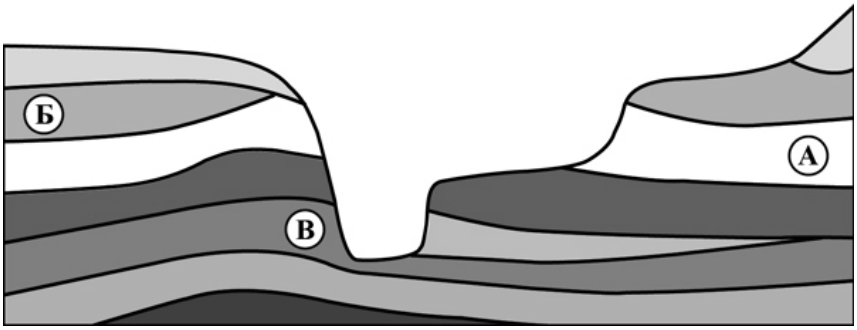


| СЛОИ ГОРНЫХ ПОРОД | ГЕОЛОГИЧЕСКИЕ ЭРЫ |
|---|---|
| А) А | 1) палеозойская |
| Б) Б | 2) кайнозойская |
| В) В | 3) мезозойская |

Запишите в таблицу выбранные цифры под соответствующими буквами.

Ответ:

| А | Б | В |
|---|---|---|
| | | |

**7** Россия обладает крупнейшими в мире запасами древесины, однако эти запасы в разных регионах России существенно различаются. Какой из перечисленных регионов России обладает наибольшими запасами древесины?

1) Саратовская область
2) Архангельская область
3) Республика Калмыкия
4) Курская область

Запишите номер выбранного региона.

Ответ:

КОД

***Задания 8 и 9 выполняются с использованием приведённой ниже карты погоды.***

**Карта погоды на 2 ноября 2023 г. (на 15 часов по московскому времени)**

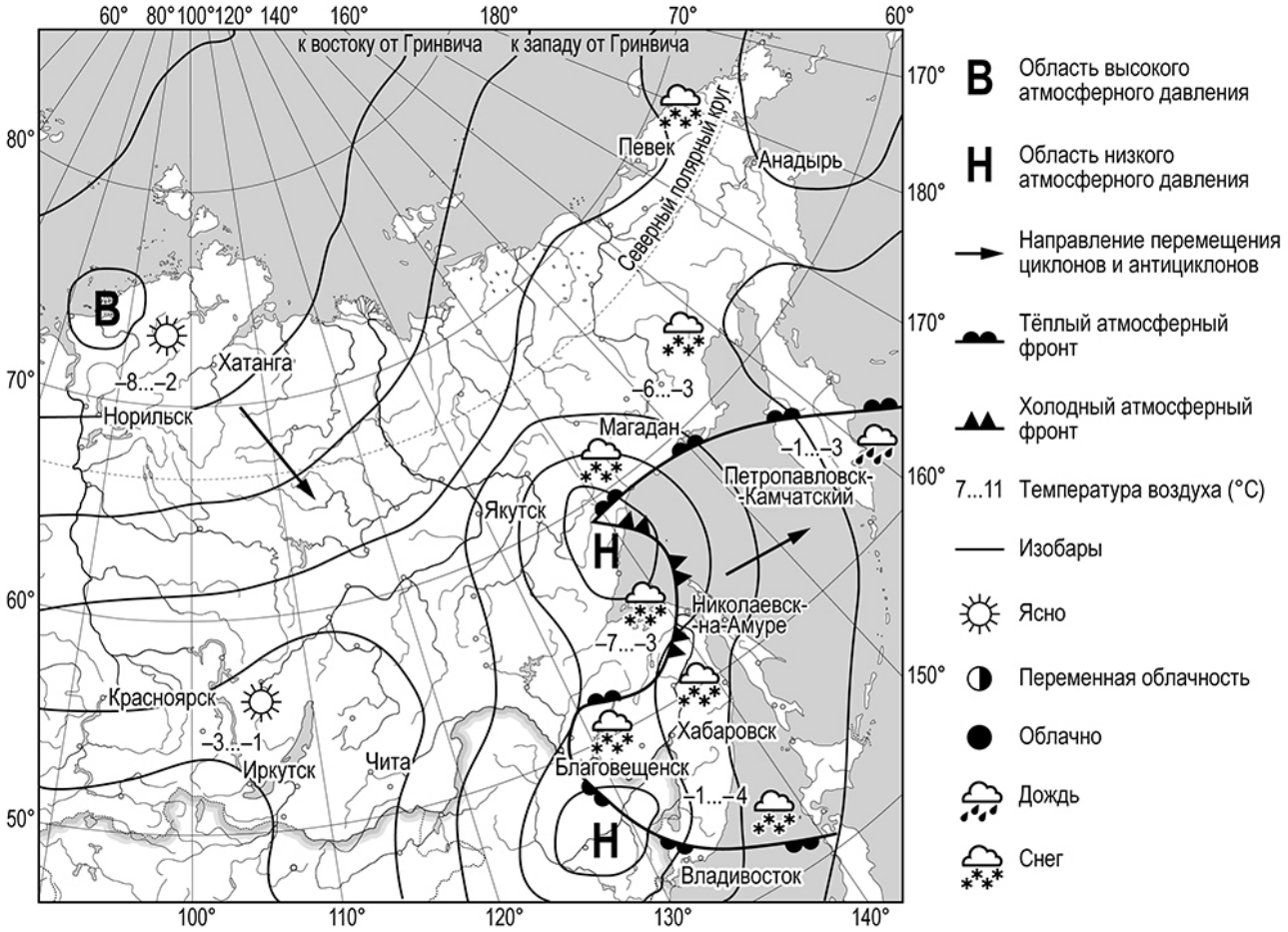


**8** Кирилл из Иркутска прослушал прогноз погоды по радио: «Завтра, 3 ноября, ожидается потепление, в дневные часы температура повысится, пройдёт снег, будет облачно, без прояснений», но не услышал, для его ли города этот прогноз был составлен. С помощью карты определите, для какого из показанных на карте городов был составлен этот прогноз.

Ответ: _____

**9** Прочитайте прогноз погоды на 3 ноября для города Николаевска-на-Амуре: «В Николаевске-на-Амуре похолодает, в ночные часы температура воздуха опустится до минус 7 градусов по Цельсию, ожидается облачная погода, пройдёт снег».

Объясните, почему в Николаевске-на-Амуре ожидается выпадение атмосферных осадков.

Ответ: _____

_____

_____

_____

_____