ВСЕРОССИЙСКАЯ ОЛИМПИАДА ШКОЛЬНИКОВ
ПО ИСТОРИИ. ШКОЛЬНЫЙ ЭТАП. 5 КЛАСС.
2022-2023 УЧЕБНЫЙ ГОД

Время выполнения: 45 минут
Общее количество баллов - 100

1	2	3	4	5	6	7	8	9
12	8	6	12	16	6	12	10	18

Задание 1. (по 3 балла за каждый правильный ответ. Максимальный балл – 12)

Проанализируйте результаты раскопок и ответьте на вопросы.
При раскопках древнего поселения археологи обнаружили: фрагменты печей из глины, зерна ячменя, мотыги, глиняные черепки с графическими узорами, костяные бусы, кости коров и свиней.

1.1. К какому времени относятся находки археологов?
_____
1.2. Как называется этот тип хозяйства?
_____
1.3. Как называют ученые этот переворот?
_____
1.4. О каких занятиях людей можно узнать по этим находкам?_____
_____
_____
_____

Задание 2. (Максимальный балл 8)

Рассмотрите предложенные изображения и выполните задания 2.1. – 2.3.
Максимум 8 баллов.

1



2

3

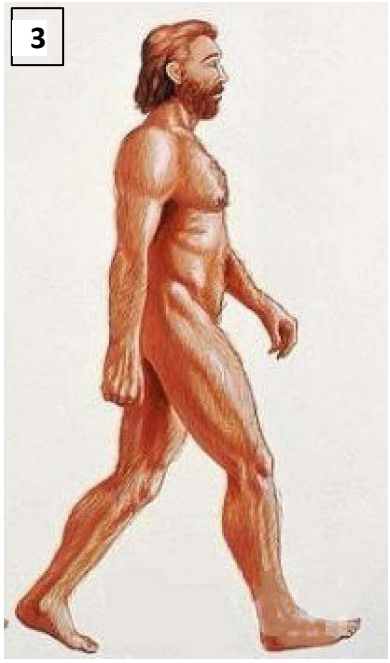

4



5

2.1. Заполните пропуск в предложении:
«Изображения отражают разные этапы процесса биологической _____ человека». (2 балл).

2.2. Расставьте данные изображения в хронологической последовательности указанного выше процесса. Ответ запишите в виде последовательности цифр в таблицу. (3 балла).

2.3. Соотнесите названия представителей отряда приматов с представленными изображениями. Обратите внимание, что изображений больше, чем требуется (3 балла).

А) кроманьонец Б) дриопитек В) неандерталец

Ответ в виде цифр запишите в таблицу.

А	Б	В

Задание 3. (2 балл за каждый правильный вывод, максимальный балл – 6)

Прочитайте описание погребения, обнаруженного археологами на знаменитой стоянке Сунгирь во Владимирской области.

«Второе погребение, расположенное под первым, принадлежало взрослому мужчине. Покойник лежал на спине в вытянутом положении. При нем были положены кремневый нож, скребло и обломок костяного предмета. Скелет был густо засыпан охрой, и на нем лежали многочисленные бусы из бивня мамонта. Размещение бус, сохранивших первоначальное положение, позволило реконструировать одежду. Костюм состоял из

нераспашной рубахи, штанов, соединённых с обувью, и, возможно, плаща. На голове была надета шапка, богата украшенная бусами из бивня и просверленных клыков песца. На руках были тонкие браслеты из бивня и нитки бус. Под коленями и на щиколотках также прослежены перевязки из связок бус. По внутренней стороне ног нашитые бусы образовывали длинные лампасы, соединяющие штаны и обувь. Всего было нашито свыше 3,5 т. бус».

Что можно из этого описания узнать о жизни, занятиях, верованиях народа, который оставил этот памятник? Сделайте 3 вывода.

1._____
_____
_____
_____

2.
_____
_____
_____
_____

3.
_____
_____
_____
_____

Задание 4. (<u>2 балла за каждый правильный ответ, максимальный балл – 12</u>)

Верны ли следующие утверждения («да» – «нет»)? Ответы внесите в таблицу.
4.1. Около 2,5 млн лет назад появились люди, по своему облику похожие на современного человека.
4.2. Самая длительная эпоха в истории человечества – Новое время.
4.3. Золото было основным металлом, из которого производили орудия труда первобытные люди.
4.4. Коллектив кровных родственников назывался родовой общиной.
4.5. Люди эпохи палеолита уже умели пользоваться огнем.
4.6. первым одомашненным животным была лошадь.

Ответ

4.1	4.2	4.3	4.4	4.5	4.6

Задание 5. (По 2 балла за каждую найденную и исправленную ошибку. <u>Максимальный балл – 16</u>)

Найдите 8 исторических ошибок в сочинении ученика и исправьте их, заполнив таблицу.

Около 12 тысяч лет назад в природе ничего не изменилось. Похолодало, ледник стал быстро таять и отступать на юг. Приспособиться к новым условиям было легко и просто. Ломался тысячелетний уклад жизни. Пришлось осваивать охоту на крупного хищного зверя. Люди стали селиться в крупные пещеры, катакомбы. В поисках пищи племенам надо было оставаться на одном месте. Было изобретено первое механическое оружие - копье с каменным наконечником

Ошибка	**Исправление**
1	
2	
3	
4	
5	
6	
7	
8	

Задание 6. (Максимальный балл – 6)

Перед вами фотографии, иллюстрирующие деятельность разных историков. Выберите номера изображений, связанных с работой археологов, и запишите их

1	2
3	4
5	6

Ответ: _____

Задание 7. (по 6 баллов за каждую правильно решенную задачу. Максимальный балл - 12 баллов)

Решите задачи. ОБЯЗАТЕЛЬНО пропишите арифметические действия

а) В 1900 году археологами был раскопан могильник вождя, где найдены остатки бус из драгоценных камней, золотые и серебряные сосуды. Установлено, что захоронение было сделано 7240 лет назад. В каком году был захоронен вождь? Запишите решение и ответ.

Решение _____

б) Считается, что первую пирамиду зодчий Имхотеп начал строить в 2750 г. до н.э. Последние пирамиды построены в 1700 г. до н. э. Сколько лет прошло между постройкой
первой и последней пирамиды? Сколько лет назад были построены последние пирамиды? Приведите свои вычисления.

Решение_____
_____
_____
_____

Задание 8. (по 2 балла за каждое правильный соответствие. Максимальный балл - 10)

Многие известные нам сегодня орудия труда ведут свою историю с древнейших времён. Тогда они были просты, примитивны и тем не менее выполняли свою функцию. Рассмотрите представленные изображенияи соедините попарно древние орудия труда с их современными «потомками».

Примитивные орудия труда		Современный аналог
А)		1)
Б)		2)
В)		3)

Г)		4)
Д)		5)

А	Б	В	Г	Д

Задание 9. (<u>Максимум за задание – 18 баллов</u>)

Прочитайте стихотворение В.Д. Берестова. Выполните задания.

Раз первобытные дети
Пошли в первобытный лес.
И первобытное солнце
Глядело на них с небес.
И встретили дети в чаще
Неведомого зверька,
Какого ещё ни разу
Не видывали пока.
Сказал первобытный папа:
«Ну, что ж, поиграйте с ним,
Когда он будет побольше,
Мы вместе его съедим».
Ночь. Первобытные люди
Спят первобытным сном,
А первобытные волки,
Крадутся во мраке ночном.
Беда первобытным людям
Во сне беззащитным таким.
Как часто звериное брюхо –
Могилою делалось им.
Но злых людоедов почуяв,
Залаял отважный зверёк.
И этим людей первобытных
От гибели он уберёг.
С папой ходить на охоту
Он начал, когда подрос.

Так другом стал человеку
Весёлый и верный пёс

1.1. Запишите, о возникновении, какого занятия древних людей идёт речь

_____

_____

1.2. Укажите, когда это занятие возникло

_____

1.3. Укажите не менее двух других животных, которых приручил человек в числе первых.

_____

_____

1.4. <u>Подпишите на карте</u> материк, который первобытные герои стихотворения могут назвать своей «прародиной».

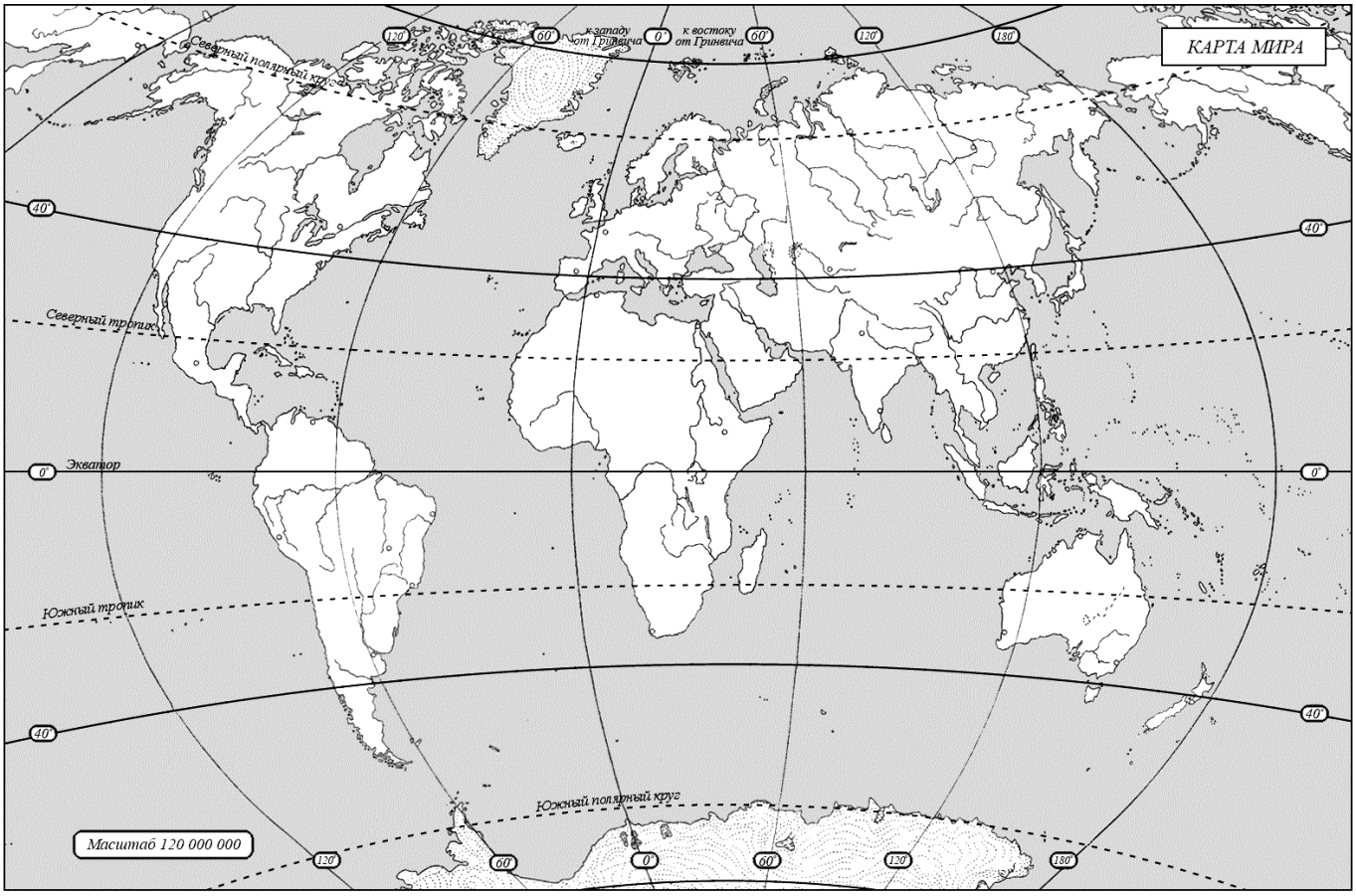

9 .

ВСЕГО 100 БАЛЛОВ.