Муниципальный этап

Всероссийской олимпиады школьников по истории 2022-2023 учебного года

Задания. 7 класс

Максимальная оценка – 100 баллов

Время на подготовку – 2 академических часа (120 мин)

1	2	3	4	5	6	7	8	9	10	**всего**
9	10	6	8	12	10	8	20	7	10	**100**

Задание I. Выберите <u>несколько</u> верных ответов в каждом задании. Ответы запишите в приведенную ниже таблицу (по 1 баллу за каждый правильный ответ, максимальный балл – 9).

1.1.Укажите произведения культуры, которые были созданы в XI веке:

1) «Остромирово Евангелие»

2) Собор Парижской Богоматери

3) Собор Святой Софии в Новгороде

4) «Слово о Законе и Благодати»

5) Успенский собор во Владимире

6) «Повесть временных лет»

1.2. Выберите из предложенного перечня события, относящиеся к XIII в.:

1) Третий крестовый поход

2) битва на реке Воже

3) битва на реке Сити

4) начало Столетней войны

5) Грюнвальдская битва

6) начало созыва парламента в Англии

1.3. Укажите пары современников:

1) Анна Ярославна – Иоанн Безземельный

2) Андрей Боголюбский – Фридрих Барбаросса

3) Иван Калита- хан Узбек

4) Дмитрий Донской – Людовик XI Святой

5) Василий II – Фернан Магеллан

6) Иван III – Изабелла Кастильская

1.1	1.2	1.3

Задание II. Изучите представленные ряды, определите и напишите, по какому принципу выстроен каждый ряд (По 2 балла за каждый максимально правильный ответ. Максимальный балл - 10)

2.1. Жидовствующие, стригольники, катары, вильденсы, альбигойцы

Ответ:_____

2.2. Детинец, посад, конец, торг, улица.

Ответ:_____

2.3. 1072, 1097, 1101, 1103

Ответ:_____

2.4. Дмитрий Иванович, Дмитрий Михайлович Боброк, Андрей Ольгердович, Родион Ослябля, Владимир Андреевич Серпуховской

Ответ:_____

2.5. Понева, повойник, душегрея, зипун, кичка

Ответ:_____

Задание III. Дайте краткое обоснование принципа составления рядов исторических событий, назовите один лишний элемент, свой выбор обоснуйте. (Максимальный балл – 6 баллов)

3.1. Вятичи, кривичи, ятвяги, поляне, радимичи, северяне, древляне

Ответ:_____
_____
_____

3.2. Аристотель Фиораванти, Алевиз Новый, Марко Руффо, Бон Фрязин, Пьетро Антонио Солари, Джакомо Кваренги

Ответ:_____
_____
_____

3.3. Смерд, огнищанин, холоп, закуп, рядович

Ответ:_____

_____

_____

Задание IV. Установите соответствие между событиями отечественной истории и событиями зарубежной истории, произошедшими в том же веке. Запишите выбранные цифры под соответствующими буквами в таблицу в бланке работы (по 2 балла за правильный ответ, максимальный балл- 8)

	СОБЫТИЯ ОТЕЧЕСТВЕННОЙ ИСТОРИИ		**СОБЫТИЯ ЗАРУБЕЖНОЙ ИСТОРИИ**
А	Правление Юрия Долгорукого	1	Война Алой и Белой розы
Б	Основание крепости Юрьева	2	Второй крестовый поход
В	Второй поход Батыя на Русь	3	Жакерия
Г	Строительство белокаменного Московского Кремля	4	Великая хартия вольности
		5	Взятие Иерусалима крестоносцами

Ответ:

А	Б	В	Г

Задание V. Перед вами фрагменты исторических источников и портреты монархов. Заполните таблицу. (максимальный балл - 12 баллов)

Отрывки из исторических источников:

1. О переходе крестьян. Крестьянам разрешается переходить их волости в волость, из села в село лишь в течение одного срока в году: за неделю до осеннего Юрьева дня (26 ноября) и в течение недели после осеннего Юрьева дня. За пользование двором крестьяне платят в степной полосе рубль, а в лесной - полтину. Если крестьянин проживет у господина год, то при уходе он платит четверть стоимости двора, если два года - половину стоимости двора, три года - три четверти, а за четыре года он уплачивает стоимость всего двора.

2. Холопство полное — трех родов: первое, когда кто купит человека, хотя бы и за полгривны, и поставит свидетелей, а отдаст ногату при самом холопе. А второе холопство, когда кто женится на рабе без всякого условия, а если женится с условием, то он остается на тех правах, как было условлено. А вот третье холопство, когда кто без условия же пойдет в тиуны или в ключники; если же было заключено условие, то остается на тех правах, как было условлено.

3. Крестьянам разрешается переходить из волости в волость и из села в село раз в году: за неделю до и неделю после осеннего Юрьева дня. За дворы пожилое платить: в полевой местности за двор рубль и два алтына, в лесной местности, за десять верст до строевого леса, за двор полтина и два алтына. Владельцу земли за уход платить: за год стоимость четверти двора, за два года - полдвора, за три года - три четверти, за четыре года стоимость двора - рубль и два алтына. Пожилое взимать с ворот, а за отъезд брать со двора по два алтына; кроме этого никаких пошлин не брать. Если у крестьянина останется посеянный озимый хлеб, как только он его уберет, или не

с убранного, должен заплатить с бороны два алтына. Если посеяна была рожь в его земле, он должен платить подать Царю и Великому Князю со ржи, а боярину, на чьей земле он жил не платить ничего. Священнику пожилого не платить. Если крестьянин продастся кому-либо в полные холопы, он уходит в любое время и пожилого не платит; если же у него останется посеянный хлеб, он должен с него заплатить подать Царю и Великому Князю, а не будет платить подать, он лишается всего урожая.

Портреты монархов:

1	2	3
		

Ответ:

Номер отрывка	Номер изображения	Имя правителя	Название документа	Год принятия документа
1				
2				
3				

Задание VI. Прочитайте отрывок из исторического документа и ответьте на вопросы (Максимальный балл – 10).

Все эти беды от поганых выпали роду христианскому за грехи наши. И так вскоре те злые взяли город Москву месяца августа в двадцать шестой день… Добро же и всякое имущество пограбили, и город подожгли – огню предали, а людей – мечу.

И до той поры, прежде, была Москва для всех градом великим, градом чудным, градом многолюдным, в нем было множество народа, в нем было множество господ, в нем было множество всякого богатства. И в один час изменился облик его, когда был взят, и посечен, и пожжен. И не на что было смотреть, была разве только земля, и пыль, и прах, и пепел, и много трупов мертвых лежало, и святые церкви стояли разорены, словно осиротевшие, словно овдовевшие. Не только же одна Москва взята была, но и прочие города и земли пленены были. Князь же великий с княгинею и с детьми находился в Костроме, а брат его Владимир в Волоке, а

мать Владимирова и княгиня его в Торжке, а Герасим, владыка коломенский, в Новгороде.

После того как царь разослал силы свои татарские по земле Русской завоевывать княжение великое, одни, направившие к Владимиру, многих людей посекли и в полон повели, а иные полки ходили к Звенигороду и к Юрьеву, а иные к Волоку и к Можайску, а другие – к Дмитрову, а иную рать слал царь на город Переяславль. И они его взяли, и огнем пожгли, а переяславцы выбежали из города; город покинув, на озере спаслись в судах. Татары же многие города захватили, и волости повоевали, и села пожгли, и монастыри пограбили, а христиан посекли, иных же в полон увели, и много зла Руси принесли. Царь же, идя в Орду от Рязани, отпустил посла своего, шурина Шихмата, к князю Дмитрию Суздальскому вместе с его сыном, с князем Семеном, а другого сына его, князя Василия, взял с собой в Орду.

Вопросы:

6.1. О каком событии повествует текст документа? Напишите название события и год (2 балла), в котором оно произошло (2 балла)

Название

_____

Год

_____

6.2. Как звали великого князя, который в это время правил в Москве? (2 балла)

_____

6.3. Напишите причину события, описываемого в документе (2 балла)

_____

_____

_____

6.4. Почему великий князь и москвичи не сумели дать достойный отпор врагу? (2 балла)

_____

_____

_____

_____

_____

Задание VII. Перед Вами изображения исторических событий, определите какое событие изображено и укажите его дату (с точностью до года). (Максимальный балл – 8 баллов).

1	2
3	4

Ответ:

№	Событие	Дата
1		
2		
3		
4		

Задание VIII. Рассмотрите изображения архитектурных сооружений и портреты русских правителей. (Максимальный балл- 20)

8.1.Заполните таблицу: укажите имя правителя, название архитектурных памятников, которые были заложены или построены во время их правления, город, в котором находится каждый представленный памятник архитектуры (Правители и города могут повторяться).

Правители

1	2	3
		

4	5

Памятники архитектуры

1	2	3
4	**5**	**6**

Ответ:

8.1.

№ портрета правителя	Имя правителя	Памятник архитектуры (цифра)	Название	В каком городе находятся (название)

8.2.Укажите цифру, под которой дано изображение памятника светской архитектуры, укажите

век его постройки.

Цифра -_____
Век - _____

Задание IX. Рассмотрите карту и решите задания. (Максимальный балл за задание- 7)

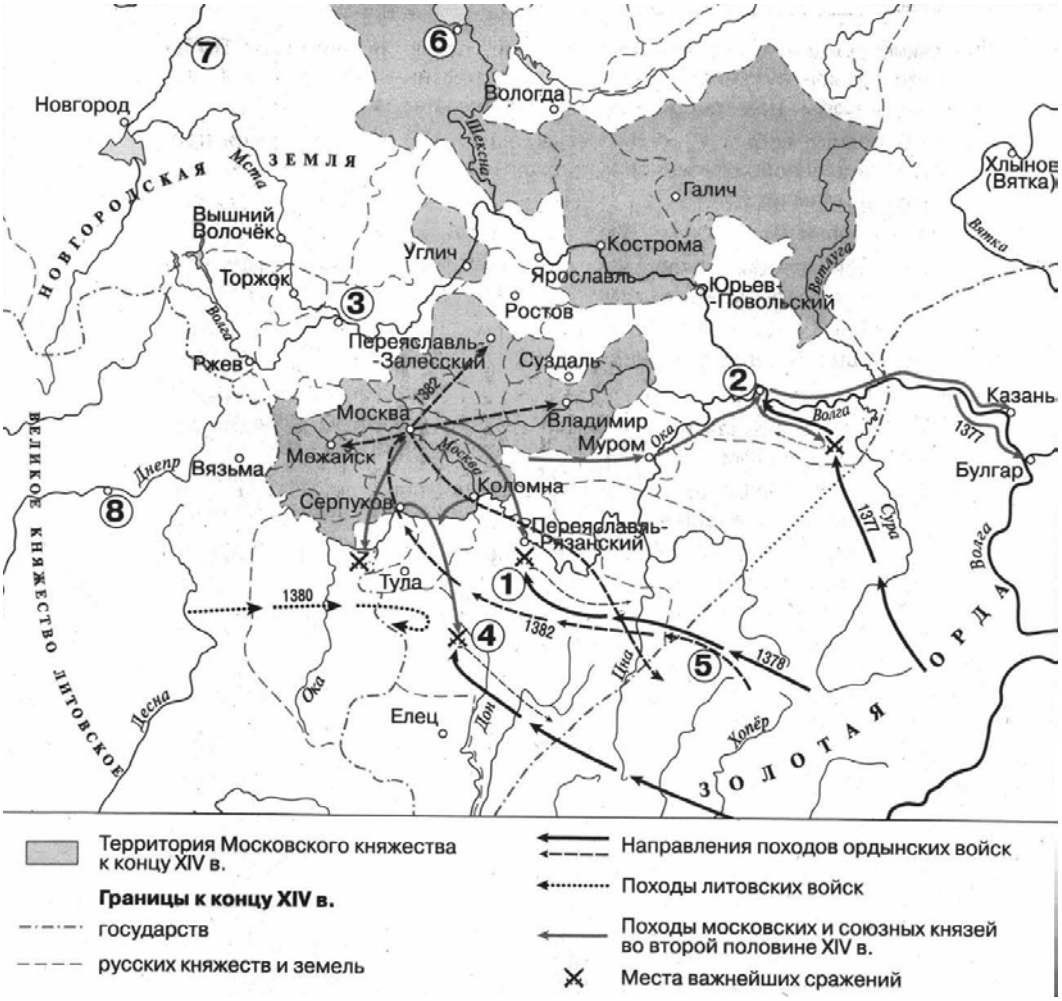

9.1. Укажите название битвы, обозначенной на схеме цифрой «1» (1 балл)

Ответ: _____

9.2. Укажите название города, обозначенного на схеме цифрой «2» (1 балл)

Ответ:_____

9.3. Какие суждения, относящиеся к схеме, являются верными? Запишите цифры, под которыми они указаны. (5 баллов)

1) Цифрой «8» на схеме обозначен город – племенной центр кривичей
2) В походах русских войск, обозначенных на схеме стрелками, принимали участие стрелецкий полки.
3) На схеме обозначена и подписана река, по которой в древности проходил торговый путь, связывавший Русь со странами Арабского Востока и Персией.
4) Согласно «Повести временных лет», в городе, обозначенном на схеме цифрой «6» в 60-х гг. IX века княжил варяг Синеус.

5) Цифрой «3» на схеме обозначен город, который в XIV века соперничал с Москвой в борьбе за роль центра объединения северо-восточных русских земель.
6) Действиями литовских войск, поход которых обозначен на схеме стрелками, руководил князь Гедимин.
7) На схеме обозначен и подписан город, где в конце XVII века был построен первый русский флот.
8) К концу XIV века Вязьма входила в состав Великого княжества Литовского.

Ответ:_____

Задание X. Определите пропущенные в тексте названия, слова, имена, даты, обозначенные порядковыми номерами. При необходимости при порядковых номерах даются пояснения о характере требуемой вставки. Необходимые вставки впишите под соответствующими номерами в таблицу в бланке работы (Максимальный балл-10)

Коронация Ивана IV в **1 (дата)**_____ и потребность в укреплении государства обусловили необходимость глубоких государственных преобразований. Вскоре вокруг молодого царя образовалась группа приближенных к нему лиц, которую один из ее участников, князь **2 (фамилия)**_____, впоследствии назвал **3** _____.

Во главе этого кружка служилой знати и придворных встали дворянин из богатого, но незнатного рода **4 (фамилия)**_____ и протопоп Благовещенского собора Кремля **5 (имя)**_____. К ним примыкали знатные князья **2 (фамилия)**_____, Н. Одоевский, М. Воротынский и др. В состав **3** _____ входил и первый начальник **6 (название приказа)**_____ думный дьяк И.М. Висковатый. Активно поддерживал деятельность этого кружка митрополит (7)_____.

Не являясь формально государственным учреждением, **3** _____ была, по сути, правительством России и в течение 13 лет управляла государством от имени царя, последовательно осуществляя целую серию крупных реформ. По своему содержанию эти преобразования совпадали с требованиями обращенных к царю челобитных, которые были написаны в 1549 году талантливым публицистом дворянином **8 (фамилия)**_____.

В русле централизации находился и новый Судебник, который был принят в **9 (год)**_____. Он базировался на Судебнике 1497 года, но включал в себя более упорядоченные статьи о правилах перехода крестьян, ограничил права наместников, ужесточил наказания за разбой, вводил статьи о наказании за взяточничество. В Судебник были внесены изменения и дополнения, связанные с усилением центральной власти. Население должно было нести **10** _____ – совокупность натуральных и денежных повинностей.

Ответ:

1	
2	
3	
4	
5	
6	
7	

8	
9	
10	